Nome : _____ Data : _____

PAPILUMO / 2.º ano (7–8 anos) • Soluções

Sequências decrescentes: descobre a regra (0–100)

Observa os quatro primeiros números, escreve a regra de subtração na caixa à direita e completa as três pedras em branco.



Pista: compara dois números vizinhos para encontrar a regra (− 2, − 3, − 4, − 5 ou − 10).
O Riko a raposa detetive segue trilhos até 100: tira sempre o mesmo número em cada passo!

Exemplo resolvido: 50, 45, 40 | regra − 5 | seguintes: 35, 30

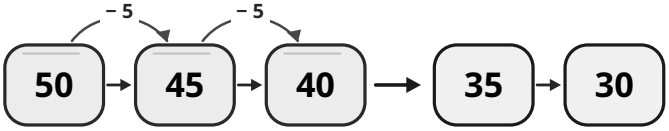

Regra: − 5

1. Descobre a regra de subtração de cada trilho (A–F) e escreve os três números seguintes

A 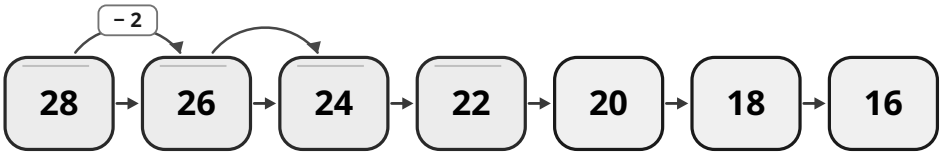

Regra: − 2

B 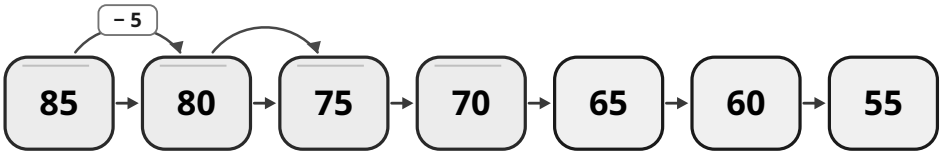

Regra: − 5

C 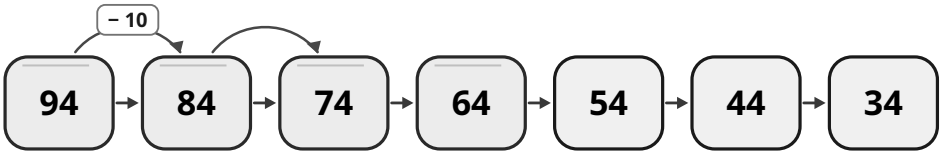

Regra: − 10

D 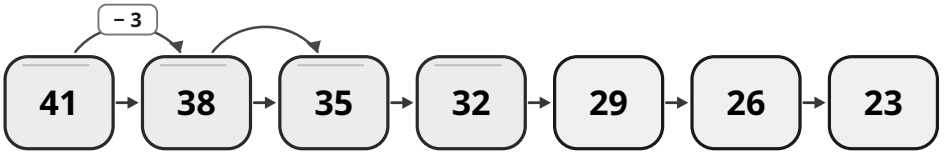

Regra: − 3

E 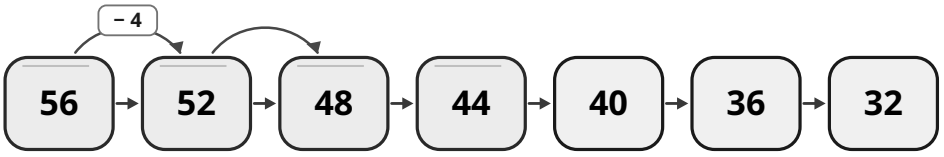

Regra: − 4

F 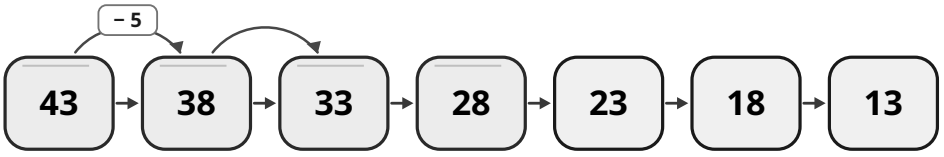

Regra: − 5

Dica do Riko: confirma sempre o salto entre o segundo e o terceiro número e tem atenção às passagens de dezena como 41 para 38 ou 32 para 29.