Nome : _____ Data : _____

PAPILUMO | Pré-escolar 5 anos (5–6 anos) | Soluções

Números de 11 a 19 (quadros de dez)

Observa o exemplo do Coco, completa 10 + _ = __ em cada cartão e desenha os pontos em falta para 17 e 19.



Olá, sou o Coco o coelho! Um quadro cheio vale sempre 10: conta os pontos extra para descobrir cada número.

Exemplo resolvido: 1 quadro cheio (10) + 4 pontos = 14

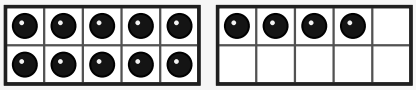

10 + 4 = 14

1. Conta os pontos dos dois quadros e completa cada adição

1

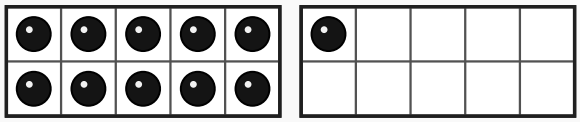

10 + 1 = 11

2

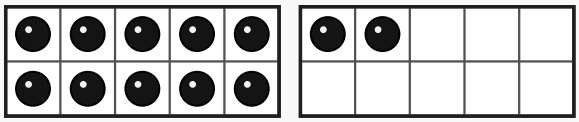

10 + 2 = 12

3

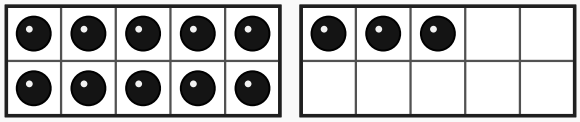

10 + 3 = 13

4

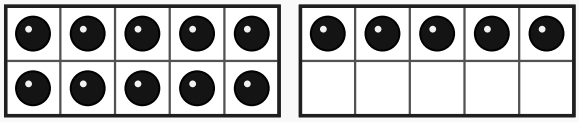

10 + 5 = 15

2. Desenha os pontos que faltam no segundo quadro e escreve a adição

5 — Número : 17

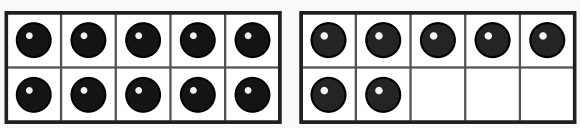

10 + 7 = 17

6 — Número : 19

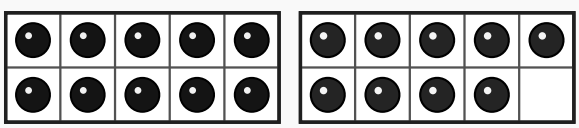

10 + 9 = 19

Dica do Coco: não voltes a contar o primeiro quadro um a um; começa logo em 10 e continua pelos pontos do segundo quadro.