Nome : _____ Data : _____

PAPILUMO / 2.º ano (7–8 anos) • Soluções

Contar de 4 em 4 até 48

Soma 4 em cada salto para completar os caminhos de trevos e depois conta todas as rodas dos carrinhos.



A rã Bibi salta contente de trevo em trevo à beira do lago.
Ajuda-a a descobrir todos os números de 4 em 4 até 48!

Exemplo: cada salto soma 4 (4 -> 8 -> 12 -> 16)

4 —(+4)→ 8 —(+4)→ 12 —(+4)→ 16

1. Aquecimento: faz a Bibi saltar de 4 em 4 até 24 (3 casas vazias)

+4

4 —(+4)→ 8 —(+4)→ 12 —(+4)→ 16 —(+4)→ 20 —(+4)→ 24

2. Três caminhos completos do 4 ao 48: preenche os 15 espaços em falta

A

4 → 8 → 12 → 16 → 20 → 24

28 → 32 → 36 → 40 → 44 → 48

B

4 → 8 → 12 → 16 → 20 → 24

28 → 32 → 36 → 40 → 44 → 48

C

4 → 8 → 12 → 16 → 20 → 24

28 → 32 → 36 → 40 → 44 → 48

3. Conta todas as rodas destes carrinhos de 4 rodas

1 3 carros



= 12 rodas

2 5 carros

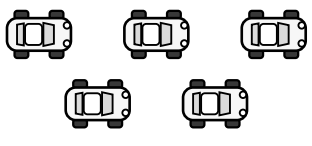

= 20 rodas

3 7 carros

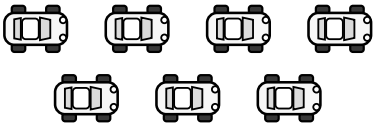

= 28 rodas

4 9 carros

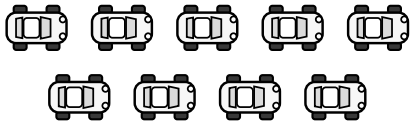

= 36 rodas

Dica da Bibi: repara que o algarismo das unidades se repete sempre pela mesma ordem (4, 8, 2, 6, 0) a cada cinco saltos!