Prénom : _____ Date : _____

PAPILUMO CM1

Aire et périmètre des figures en L

Trace un trait pointillé pour partager chaque figure en 2 rectangles, trouve la mesure « ? » sur C et D, puis calcule l'aire (cm²) et le périmètre (cm).



Gaspard la girafe architecte conçoit des pièces en L ! Découpe la figure en deux rectangles, puis additionne leurs aires et tous les côtés du tour.

Exemple : découper pour calculer

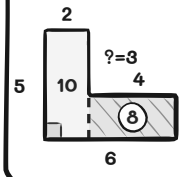

? = 5 - 2 = 3 cm

Aire : 10 + 8 = 18 cm²

Périmètre : 22 cm

(5+2+3+4+2+6)

A

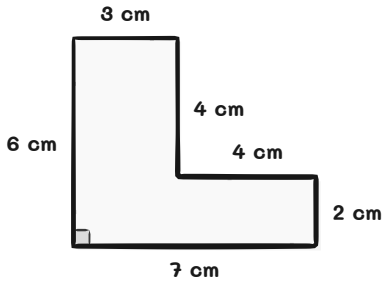

Aire : ____ + ____ = _____ cm²

Périmètre : _____ cm

B

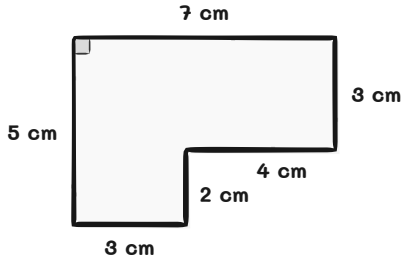

Aire : ____ + ____ = _____ cm²

Périmètre : _____ cm

C

Côté ? = ___ cm

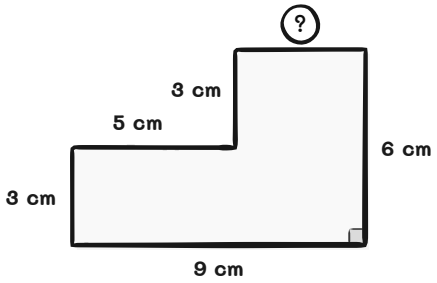

Aire : ____ + ____ = _____ cm²

Périmètre : _____ cm

D

Côté ? = ___ cm

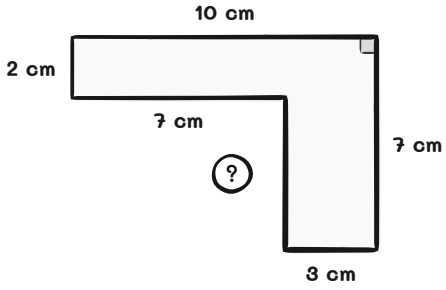

Aire : ____ + ____ = _____ cm²

Périmètre : _____ cm

Trace le trait intérieur pour trouver l'aire, mais ne l'ajoute jamais quand tu calcules le périmètre du contour !