Prénom : _____ Date : _____

PAPILUMO / CP (6–7 ans)

Tracer et écrire les dizaines de 10 à 100

Compte les barres de dix dans chaque carte, repasse le nombre en pointillés, écris-le seul dans la case et lis le mot-nombre. Salut, moi c'est Théo le chien architecte ! Chaque grande barre vaut 10 cubes : compte-les pour bâtir les dizaines jusqu'à 100 !



Exemple de Théo : compter par barres de dix (10, 20…)

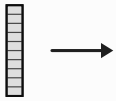

1 barre de dix = 10

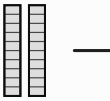

2 barres de dix = 20

1. Observe les barres de dix, repasse chaque dizaine en pointillés, puis écris le nombre et lis le mot

Barres de dix	Repasse	Écris et lis
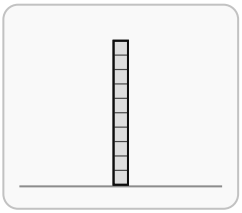	10	dix
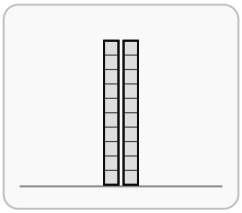	20	vingt
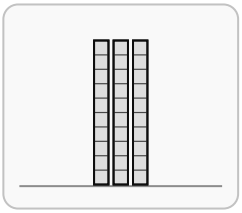	30	trente
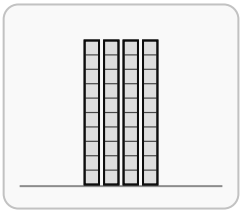	40	quarante
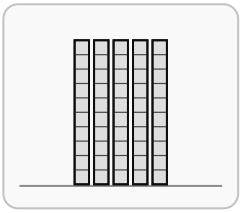	50	cinquante
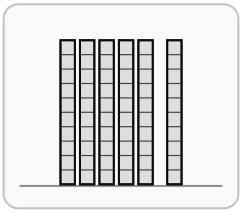	60	soixante
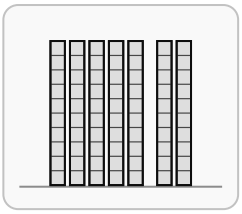	70	soixante-dix
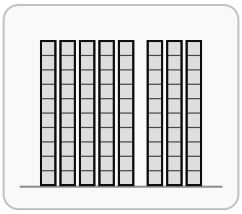	80	quatre-vingts
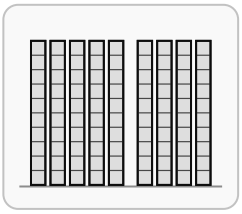	90	quatre-vingt-dix
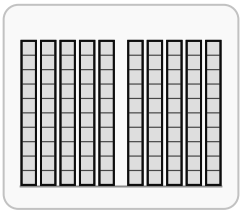	100	cent

Astuce de Théo : chaque barre vaut 10 cubes. Compte de 10 en 10 (10, 20, 30…) et pose bien tes chiffres sur la ligne.