Prénom : _____ Date : _____

PAPILUMO / CP (6–7 ans) • Corrigé

Tracer et écrire les dizaines de 10 à 100

Compte les barres de dix dans chaque carte, repasse le nombre en pointillés, écris-le seul dans la case et lis le mot-nombre. Salut, moi c'est Théo le chien architecte ! Chaque grande barre vaut 10 cubes : compte-les pour bâtir les dizaines jusqu'à 100 !



Exemple de Théo : compter par barres de dix (10, 20…)

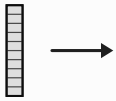

1 barre de dix = 10

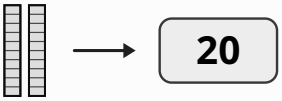

2 barres de dix = 20

1. Observe les barres de dix, repasse chaque dizaine en pointillés, puis écris le nombre et lis le mot

Barres de dix	Repasse	Écris et lis
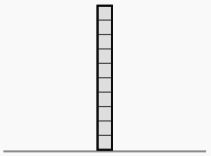	10	10 — dix
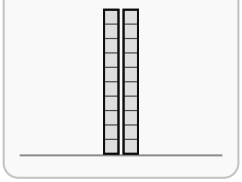	20	20 — vingt
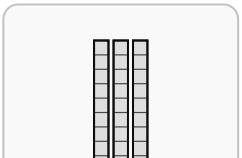	30	30 — trente
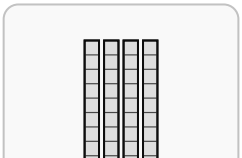	40	40 — quarante
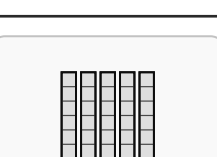	50	50 — cinquante
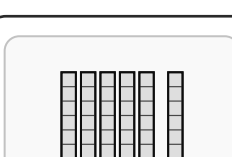	60	60 — soixante
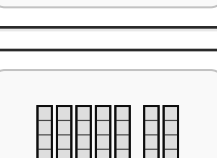	70	70 — soixante-dix
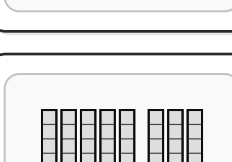	80	80 — quatre-vingts
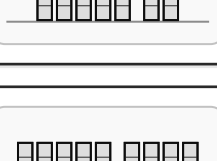	90	90 — quatre-vingt-dix
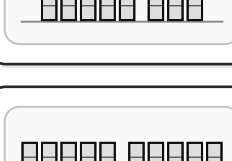	100	100 — cent

Astuce de Théo : chaque barre vaut 10 cubes. Compte de 10 en 10 (10, 20, 30…) et pose bien tes chiffres sur la ligne.