Prénom : _____ Date : _____

PAPILUMO / CE1 (7–8 ans) • Corrigé

Suites décroissantes : trouver la règle (0–100)

Observe les quatre premiers pas, écris la règle de soustraction dans la case à droite, puis complète les trois pierres manquantes.



Indice : compare deux nombres voisins pour trouver la règle (− 2, − 3, − 4, − 5 ou − 10).

Riko le renard détective suit des pistes jusqu'à 100 : enlève toujours le même nombre à chaque pas !

Exemple résolu : 50, 45, 40 | règle − 5 | suivants : 35, 30

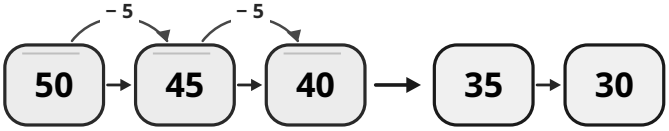

Règle : − 5

1. Trouve la règle de soustraction de chaque sentier (A–F), puis écris les trois nombres suivants

A 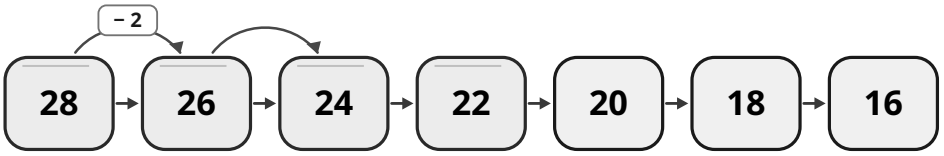

Règle : − 2

B 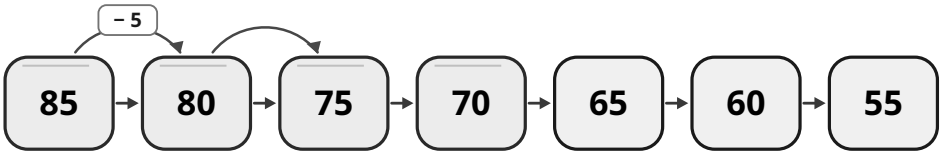

Règle : − 5

C 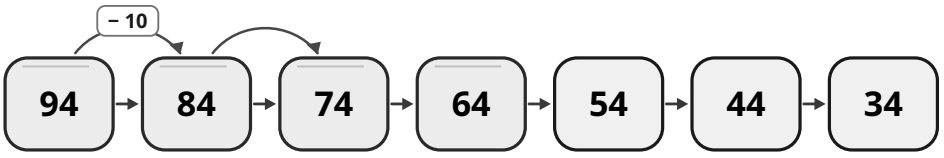

Règle : − 10

D 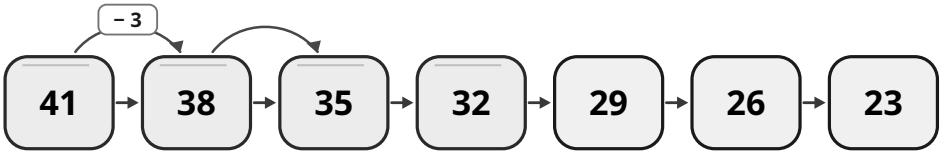

Règle : − 3

E 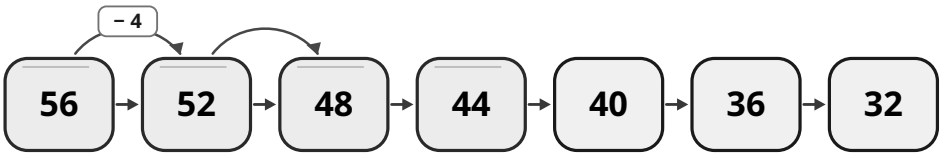

Règle : − 4

F 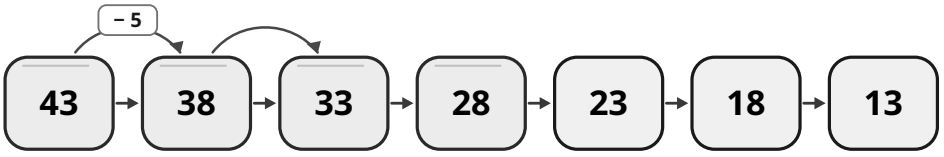

Règle : − 5

Astuce de Riko : vérifie toujours l'écart entre deux pierres voisines et fais attention aux passages de dizaines comme 41 vers 38 ou 32 vers 29.