Prénom : _____ Date : _____

PAPILUMO / CP (6–7 ans)

Additions sur la droite graduée jusqu’à 20

Pars du point noir, trace les sauts vers la droite puis écris la somme dans la case.



« Coâ ! Moi c’est Bibi la grenouille. Aide-moi à sauter vers la droite jusqu’au bon résultat ! »

Exemple résolu : 8 + 5 = 13 (pars de 8 et fais 5 sauts vers la droite)

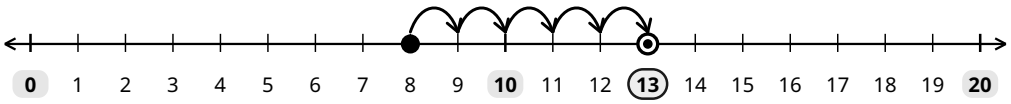

1. Trace les sauts depuis le point noir et écris chaque somme

1 **7 + 6 =** ☐

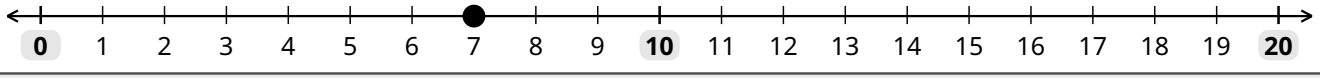

2 **9 + 5 =** ☐

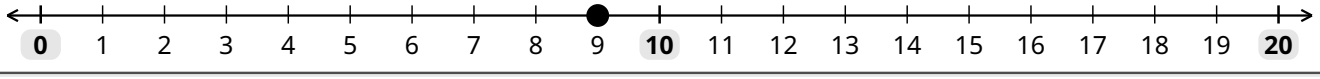

3 **6 + 8 =** ☐

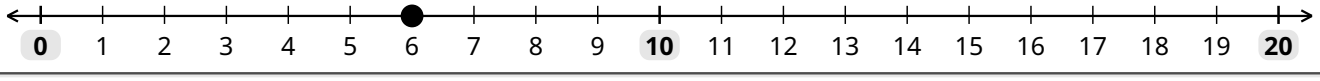

4 **11 + 7 =** ☐

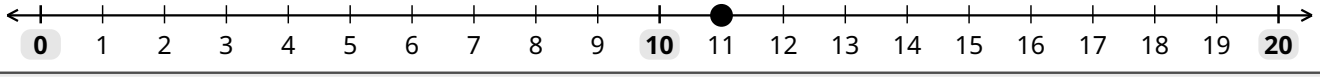

5 **8 + 9 =** ☐

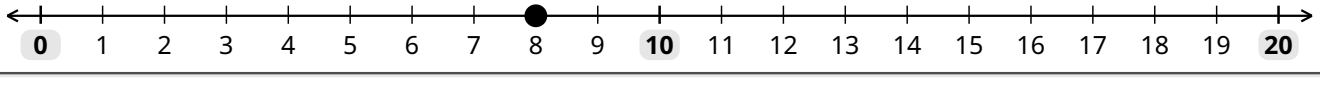

6 **12 + 6 =** ☐

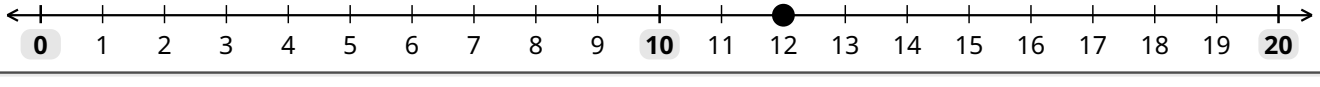

- Astuce de Bibi : le point noir montre le départ ; compte chaque arc vers la droite sans compter le point de départ.