Prénom : _____ Date : _____

PAPILUMO / CE1 (7–8 ans) • Corrigé

Mesurer et tracer en centimètres

Lis la longueur de chaque objet aligné sur le 0 de la règle en cm, puis trace les trois segments demandés à partir du point 0 cm.



Dans son atelier, Léo le menuisier castor vérifie chaque planche à la règle graduée. Aide-le à mesurer ses outils puis à tracer trois mesures exactes !

Exemple : le crayon de cire part bien de 0 et s'arrête à 5 ; il mesure 5 cm.

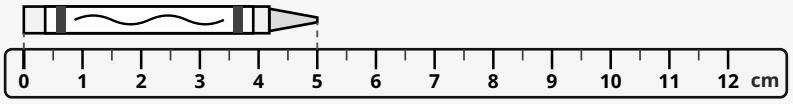

5 cm

1. Mesure la longueur de chaque objet aligné sur 0 et écris la réponse en cm

1

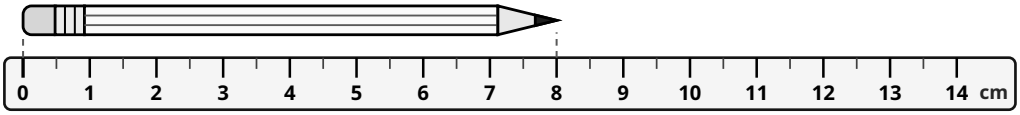

8 cm

2

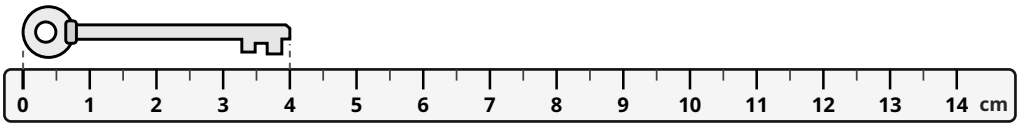

4 cm

3

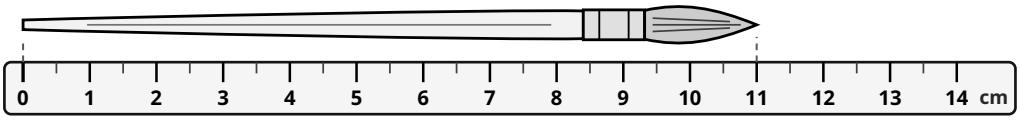

11 cm

4

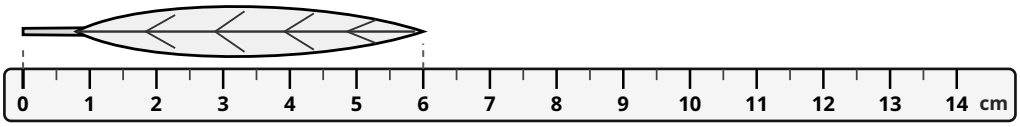

6 cm

5

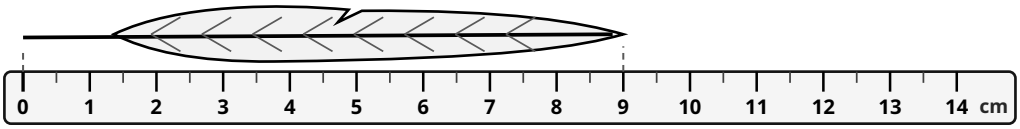

9 cm

2. Trace chaque segment depuis le point 0 cm en t'aidant de la règle en dessous

A — **3 cm**

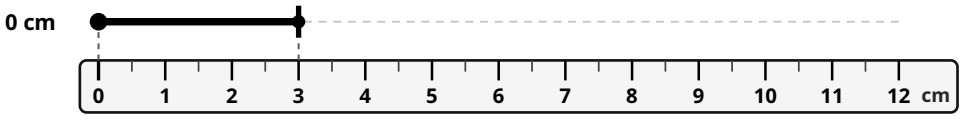

B — **7 cm**

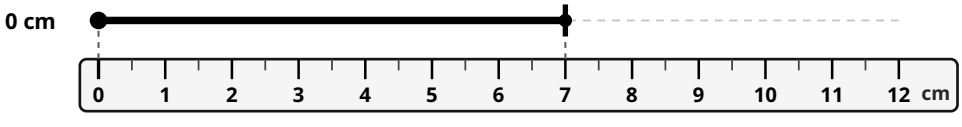

C — **10 cm**

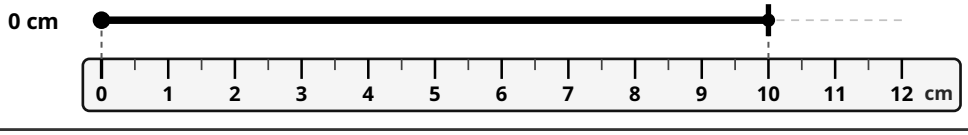

Astuce de Léo : vérifie toujours que le début de l'objet ou du segment est bien posé sur le trait 0, jamais sur le bord de la règle !