Nombre : _____ Fecha : _____

PAPILUMO | Infantil 5 años (5–6 años)

Números del 11 al 19 (marcos de diez)

Observa el ejemplo de Coco, completa 10 + _ = __ en cada tarjeta y dibuja los puntos que faltan para 17 y 19.



¡Hola, soy Coco el conejo! Un marco lleno siempre vale 10: cuenta los puntos extra para descubrir cada número.

Ejemplo resuelto: 1 marco lleno (10) + 4 puntos = 14

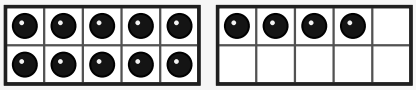

10 + 4 = 14

1. Cuenta los puntos de los dos marcos y completa la suma

1

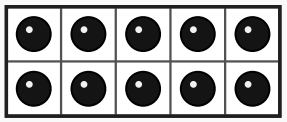

10 + ____ = ____

2

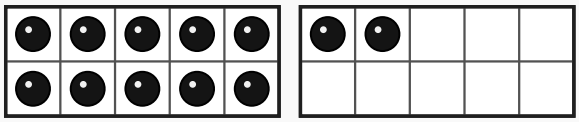

10 + ____ = ____

3

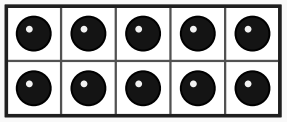

10 + ____ = ____

4

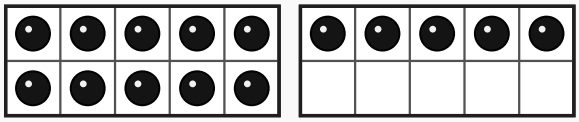

10 + ____ = ____

2. Dibuja los puntos que faltan en el segundo marco y escribe la suma

5 — Número : 17

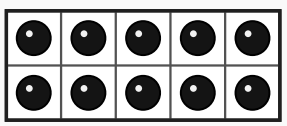

10 + ____ = ____

6 — Número : 19

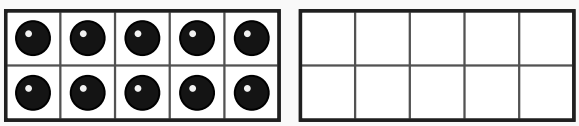

10 + ____ = ____

Consejo de Coco: no vuelvas a contar el primer marco de uno en uno; empieza desde 10 y sigue con los puntos del segundo marco.