Nombre : _____ Fecha : _____

PAPILUMO | 3.º de Primaria (8–9 años)

¿Cuántas decenas hay en un número de 3 cifras?

Observa las placas de 100 y las barras de 10, y escribe el total de decenas completas (y las unidades sueltas).



Benito el castor contable agrupa troncos de diez en diez: ¡ayúdalo a contar todas las decenas, incluso en las centenas!

Ejemplo resuelto: 180 = 18 decenas



1 centena (100) | 10 barras de 10 | 8 barras de 10

10 + 8 = 18
18 decenas

Ojo: la cifra de las decenas es 8, pero en total hay 18 decenas en 180.

1 Números terminados en cero: ¿cuántas decenas enteras hay en cada uno?

1 **140** = _____ **decenas**

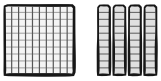

2 **230** = _____ **decenas**



3 **390** = _____ **decenas**



4 **500** = _____ **decenas**



2 Números con unidades sueltas: indica el total de decenas y las unidades

5 **245**



= _____ **decenas** y _____ **unidades**

6 **318**



= _____ **decenas** y _____ **unidades**

7 **407**



= _____ **decenas** y _____ **unidades**

8 **682**



= _____ **decenas** y _____ **unidades**

Truco de Benito: cada placa de 100 ya contiene 10 decenas. ¡Cuenta primero esas decenas y suma las barras sueltas!