Nombre : _____ Fecha : _____

PAPILUMO | 3.º de Primaria (8–9 años) · Solucionario

# ¿Cuántas decenas hay en un número de 3 cifras?

Observa las placas de 100 y las barras de 10, y escribe el total de decenas completas (y las unidades sueltas).




**Benito el castor contable agrupa troncos de diez en diez: ¡ayúdalo a contar todas las decenas, incluso en las centenas!**

**Ejemplo resuelto: 180 = 18 decenas**

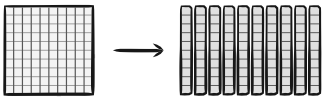

1 centena (100) → **10 barras de 10** + **8 barras de 10** = **10 + 8 = 18** → **18 decenas**

**Ojo: la cifra de las decenas es 8, pero en total hay 18 decenas en 180.**

## 1 Números terminados en cero: ¿cuántas decenas enteras hay en cada uno?

**1** 140 = **14** decenas

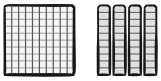

**2** 230 = **23** decenas



**3** 390 = **39** decenas



**4** 500 = **50** decenas



## 2 Números con unidades sueltas: indica el total de decenas y las unidades

**5** 245



= **24** decenas y **5** unidades

**6** 318



= **31** decenas y **8** unidades

**7** 407



= **40** decenas y **7** unidades

**8** 682



= **68** decenas y **2** unidades

Truco de Benito: cada placa de 100 ya contiene 10 decenas. ¡Cuenta primero esas decenas y suma las barras sueltas!