Nombre : _____ Fecha : _____

PAPILUMO / 2.º de Primaria (7–8 años)

Patrones crecientes de figuras

Observa los pasos 1, 2 y 3, dibuja el paso 4, escribe la regla (+1, +2 o +3) y anota el total del paso 5.



¡Zia la marmota arquitecta construye escalones bien ordenados! Ayúdala a dibujar el paso 4 y calcular el paso 5.

Ejemplo: 1 cubo, 2 cubos, 3 cubos -> Paso 4: 4 cubos

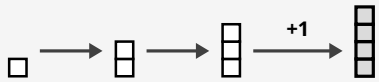

Paso 4: 4

Regla: +1

Observa cada patrón creciente, dibuja el paso 4, escribe la regla y calcula el paso 5

A

Paso 1



Paso 2



Paso 3

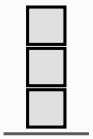

Paso 4 (dibuja)

Regla (+1, +2, +3)

Paso 5 (total)

B

Paso 1



Paso 2



Paso 3



Paso 4 (dibuja)

Regla (+1, +2, +3)

Paso 5 (total)

C

Paso 1



Paso 2



Paso 3

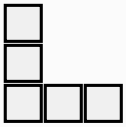

Paso 4 (dibuja)

Regla (+1, +2, +3)

Paso 5 (total)

D

Paso 1



Paso 2

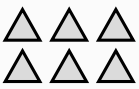

Paso 3



Paso 4 (dibuja)

Regla (+1, +2, +3)

Paso 5 (total)

Truco: cuenta los pasos 1, 2 y 3, halla el aumento (+1, +2 o +3), dibuja el paso 4 y suma la regla para el paso 5.