Nombre : _____ Fecha : _____

PAPILUMO / 2.º de Primaria (7–8 años) • Soluciones

Medir y trazar en centímetros

Lee la longitud de cada objeto alineado en el 0 de la regla en cm y traza después los tres segmentos pedidos desde el punto 0 cm.



En su taller de madera, Léo el castor carpintero comprueba cada medida con su regla graduada. ¡Ayúdalo a medir y trazar con precisión!

Ejemplo: la cera empieza justo en el 0 y llega al 5; mide 5 cm.

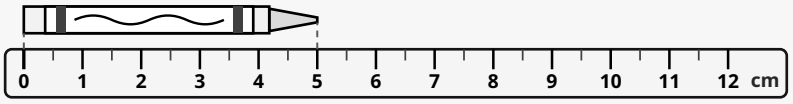

5 cm

1. Mide cada objeto alineado en el 0 y escribe su longitud en cm

1

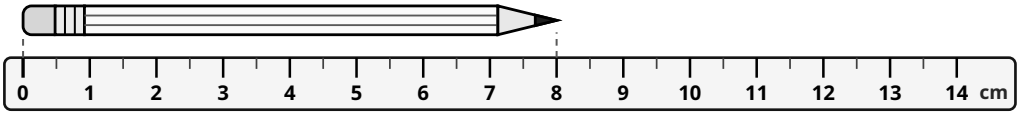

8 cm

2

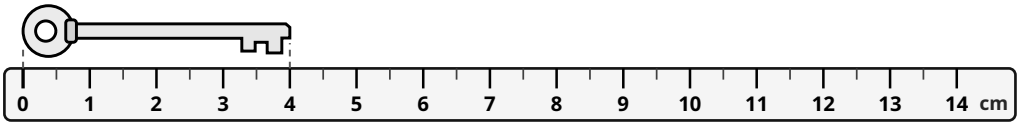

4 cm

3

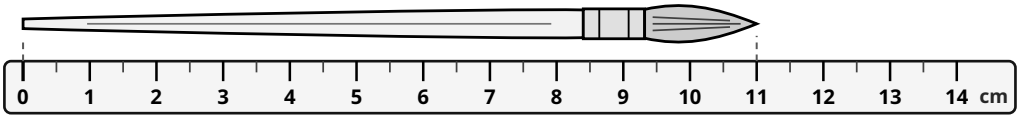

11 cm

4

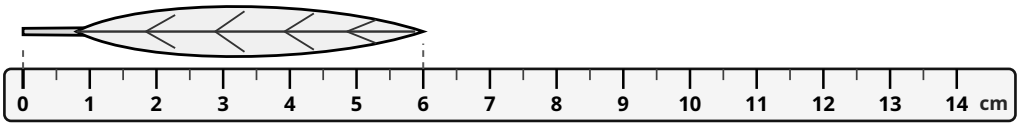

6 cm

5

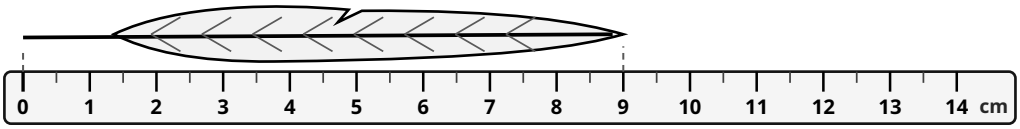

9 cm

2. Traza cada segmento desde el punto 0 cm guiándote por la regla inferior

A **3 cm**

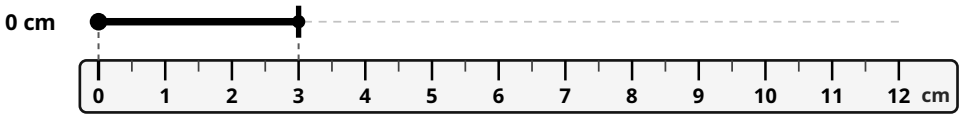

B **7 cm**

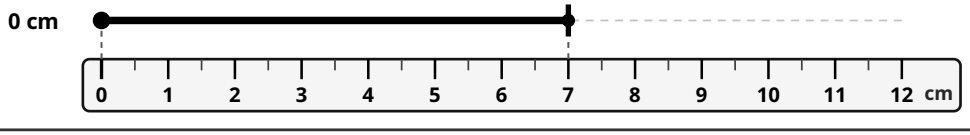

C **10 cm**

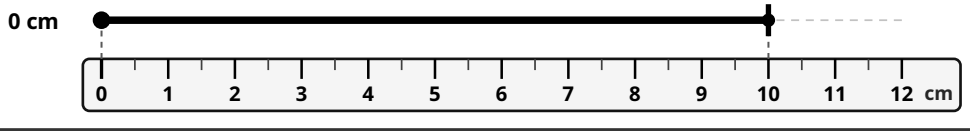

Consejo de Léo: coloca siempre el inicio del objeto o del segmento justo en la raya del 0, nunca en el borde.