Nombre : _____ Fecha : _____

PAPILUMO / 2.º de Primaria (7–8 años) • Soluciones

Contar de 4 en 4 hasta 48

Suma 4 en cada salto para completar los caminos de tréboles y luego cuenta todas las ruedas de los coches.



La rana Bibi salta de un trébol de cuatro hojas a otro junto al estanque. ¡Ayúdala a completar la serie hasta 48!

Ejemplo: cada salto suma 4 (4 -> 8 -> 12 -> 16)

4 —(+4)→ 8 —(+4)→ 12 —(+4)→ 16

1. Calentamiento: salta de 4 en 4 hasta 24 (completa 3 piedras)

+4

4 —(+4)→ 8 —(+4)→ 12 —(+4)→ 16 —(+4)→ 20 —(+4)→ 24

2. Tres caminos completos del 4 al 48: escribe los 15 números que faltan

A

4 → 8 → 12 → 16 → 20 → 24

28 → 32 → 36 → 40 → 44 → 48

B

4 → 8 → 12 → 16 → 20 → 24

28 → 32 → 36 → 40 → 44 → 48

C

4 → 8 → 12 → 16 → 20 → 24

28 → 32 → 36 → 40 → 44 → 48

3. Cuenta todas las ruedas de estos coches de 4 ruedas

1 3 coches



= 12 ruedas

2 5 coches

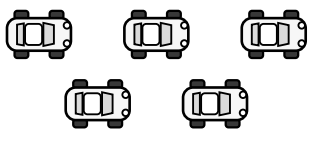

= 20 ruedas

3 7 coches



= 28 ruedas

4 9 coches

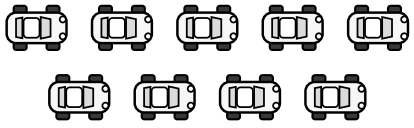

= 36 ruedas

Truco de Bibi: ¡fíjate en cómo se repite siempre la cifra de las unidades (4, 8, 2, 6, 0) cada cinco saltos!