Name : _____ Datum : _____

PAPILUMO | Klasse 3 (8–9 Jahre)

Wie viele Zehner stecken in einer Zahl?

Schau dir die Hunderterplatten und Zehnerstangen an und schreibe die Gesamtzahl der Zehner (und übrige Einer) auf.



Biber Benno der Buchhalter bündelt sein Bauholz in Zehnerpakete! Hilf ihm, alle Zehner zu zählen – auch die in jedem Hunderter.

Beispiel: 180 = 18 Zehner



1 Hunderter (100) → **10 Zehnerstangen** + **8 Zehnerstangen** = **10 + 8 = 18**, **18 Zehner**

Achtung: Die Zehnerziffer ist 8, aber insgesamt sind es 18 Zehner!

1 Glatte Zehnerzahlen: Wie viele ganze Zehner enthält jede Zahl?

1 **140** = _____ **Zehner**

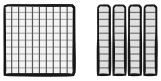

2 **230** = _____ **Zehner**



3 **390** = _____ **Zehner**



4 **500** = _____ **Zehner**



2 Zahlen mit Einern: Bestimme alle Zehner und die restlichen Einer

5 **245**



= _____ **Zehner** und _____ **Einer**

6 **318**



= _____ **Zehner** und _____ **Einer**

7 **407**



= _____ **Zehner** und _____ **Einer**

8 **682**



= _____ **Zehner** und _____ **Einer**

Bennos Tipp: Eine 100er-Platte besteht bereits aus 10 Zehnerstangen. Zähle sie zuerst und füge dann die einzelnen Stangen hinzu!